24/03/20 CM1

Mathématiques

1°) Ecris la longueur de chaque bande sous la forme d'une fraction de u



2°) Complète avec les signes < > ou =

$\frac{6}{10}$ ... 1 $\frac{10}{10}$ ... 1 $\frac{13}{10}$ ... 1

3°) Trace en vert une droite perpendiculaire à la droite noire et en rouge une droite parallèle à la droite noire

4°) Range les aires de ces figures par ordre croissant

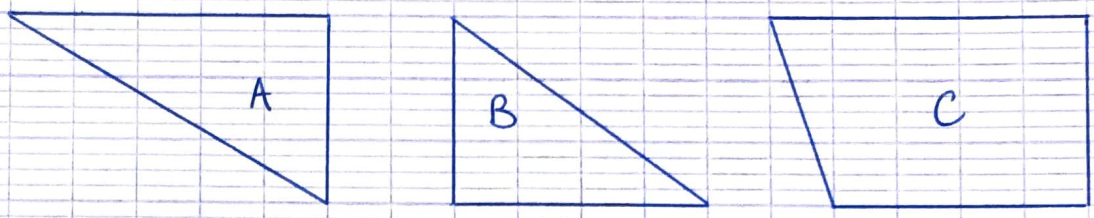

Aire de ... < Aire de ... < Aire de ...

5°) Mesure l'aire de chaque figure avec l'unité u donnée



Aire A = ... u Aire B = ... u Aire C = ... u

6°) Reproduis, puis colorie cette figure