S'entraîner

Parcours A

A1 **Écris** le nombre dans le tableau de numération.



m	c	d	u
2	3	9	4

A2 **Écris** les nombres en chiffres.
- deux mille huit cent cinquante-trois : 2.853
- cinq mille trois cent soixante-huit : 5.378

A3 **Écris** les nombres en lettres.
- 2 324 : deux mille trois cent vingt-quatre
- 4 512 : quatre mille cinq cent douze

A4 **Complète** les égalités.
- 30 centaines = 3 milliers
- 60 centaines = 6 milliers
- 5 000 = 50 centaines
- 8 000 = 800 dizaines

Parcours B

B1 **Écris** le nombre dans le tableau de numération.



m	c	d	u
8	2	7	4

B2 **Écris** les nombres en chiffres.
- neuf mille six cent vingt : 9.620
- huit mille six cent soixante-huit : 8.668

B3 **Écris** les nombres en lettres.
- 5 847 : cinq mille huit cent quarante-sept
- 7 345 : sept mille trois cent quarante-cinq

B4 **Complète** les égalités.
- 42 centaines = 4 milliers et 2 centaines
- 73 centaines = 7 milliers et 3 centaines
- 5 200 = 52 centaines
- 1 500 = 150 dizaines

Résoudre des problèmes

A5 Lola et Lucas jouent au jeu des pirates. Lola a ramassé mille trois cent trente-quatre pièces d'or. Lucas en a gagné mille deux cent douze.

- Combien de pièces d'or Lucas a-t-il de moins que Lola ?

1.334 − 1212 = 122

Lucas a 122 pièces de moins que Lola

B5 L'hypermarché a en réserve :
– 4 palettes de 1 000 boîtes, 3 caisses de 100 boîtes, 5 cartons de 10 boîtes et 7 boîtes de marque « Montchaton » ;
– 2 palettes de 1 000 boîtes, 6 caisses de 100 boîtes, 4 cartons de 10 boîtes et 8 boîtes « Miaou ».
- Combien y a-t-il au total de boîtes pour chats en réserve ?

4.357 + 2.648 = 7.005

Il y a 7.005 boîtes au total

S'entraîner

Parcours A

A1 **Écris** les longueurs entre les villes en m.

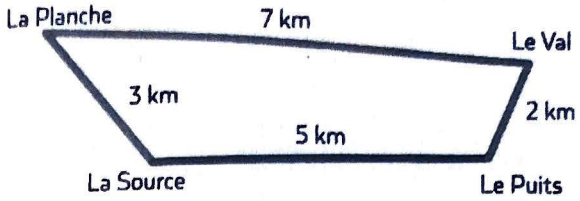

- de La Planche au Val : ..7.000.. m
- de La Source au Puits : ..5.000.. m

A2 **Écris** les longueurs en km.

- 2 000 m = ..2..km
- 6 000 m = ...6..km

A3 **Complète** les égalités.

- 900 m + ..100.m. = 1 km
- 700 m + ..300.m. = 1 km

A4 **Additionne** les longueurs.
Donne la réponse en m, puis en km.

- 3 km + 2 000 m = 5.000. m = ...5... km
- 5 000 m + 4 km = 9.000. m = ...9.... km

A5 **Compare** les longueurs avec <, > ou =.

- 9 700 m ..>.. 8 km
- 4 km ..=.. 4 000 m
- 3 000 m ..>.. 2 km

A6 **Range** les longueurs dans l'ordre croissant.

- 5 000 m | 2 km | 600 m | 1 900 m

600 m < 1900 m < 2 km < 5000 m

Parcours B

B1 **Écris** les longueurs en m.

- 4 km et 600 m = ..4.600.. m
- 8 km et 250 m = .8.250.. m
- 9 km et 700 m = ..9.700.. m

B2 **Complète** les égalités pour avoir un nombre entier de km.

- 1 800 m + ...200.. m = 2 km
- 2 600 m + ...400.... m = 3 km
- 5 400 m + ...600.... m = 6 km

B3 **Additionne** les longueurs.
Donne la réponse en m, puis en km.

- 300 m + 400 m + 300 m + 7 km
= ..8.000.. m = ...8... km
- 5 km + 3 km + 500 m + 500 m
= ..9.000.. m = ...9.... km

B4 **Compare** les longueurs avec <, > ou =.

- 5 km et 200 m ..=.. 5 200 m
- 7 900 m ..<.. 9 km et 600 m
- 8 400 m ..>.. 6 km et 800 m

B5 **Range** les longueurs dans l'ordre décroissant.

- 900 m | 1 km et 900 m | 9 km | 9 km et 100 m

9km 100m > 9 km > 1km 900m > 900 m

Résoudre des problèmes

A7 La piste du stade fait 400 m. Pour s'échauffer, les coureurs en font 5 fois le tour.



- Quelle distance parcourent-ils ?

Donne ta réponse en m, puis en km.

5 × 400 = 2.000

Ils parcourent 2000 m ou 2 km

B6

Le nageur s'élance pour une course de 1 km. Le bassin a une longueur de 50 m. Il a déjà parcouru 9 longueurs.

- Quelle distance lui reste-t-il à parcourir ?

9 × 50 = 450 1000 − 450 = 550

Il lui reste 550 m à parcourir